Le temps des malheurs

Document 1

Deux hivers de famine

« Hiver 1420 : sur les tas de fumier, vous pouviez voir vingt ou trente enfants, mourant de faim et de froid.

Hiver 1437 : la verdure était si chère qu'on début mal, on vendait, finite de poireaux, des orties que les pauvres gens faisaient cuire sans graisse, rien qu'au sel et à l'eau, et qu'ils mangeaient sans pain. »

1-1 Qu'est-ce qu'une famine ? Pourquoi a-t-elle lieu souvent en hiver ?

1-2 Qu'est-ce qui montre qu'elle était terrible ?

Document 2



Une épidémie de peste

« Ils n'étaient malades que deux ou trois jours et mouraient rapidement. Ils avaient tout à coup des grosseurs sous les bras : c'était un signe infaillible de mort. Bientôt, en beaucoup d'endroits, sur vingt habitants, il n'en restait que deux en vie. On pensait que la mort provenait d'une infection de l'air ou des eaux. Le terrible fléau ne fit pas naître la paix entre les rois et les seigneurs. »

2-1 Qu'est-ce que la peste ?

2-2 Qu'est-ce qui montre qu'elle était terrible ?

2-3 Cherche plus d'informations sur la peste au Moyen-âge.

Document 3

3-1 Décris cette enluminure.

3-2 A ton avis, que représente le personnage avec la faux ?

3-3 En quoi cette œuvre nous montre comment était la vie à cette époque ?

Document 4

4-1 Décris chacune des deux armées.

4-2 Cette bataille oppose français et anglais, repère-les. A ton avis, qui remporte la victoire ?

4-3 Cherche des informations complémentaires sur la guerre de Cent Ans.

Document 5

5-1 Décris ce lieu.

5-2 Que font ces hommes ? A ton avis, pourquoi ?

5-3 A ton avis, comment était la vie des habitants des villes ?

Document 6

6-1 Repère les symboles de la royauté.

6-2 A ton avis, pourquoi les gens acclament-ils le roi ?

6-3 Cherche des informations sur Fouquet.

Document 7

7-1 Décris cette enluminure.

7-2 Que faisait cette armée avant la mort de son chef Du Guesclin ?

7-3 Cherche des informations sur Du Guesclin.

Document 8

8-1 Quelle est la nature de ce document ?

8-2 Qui dirige le nord de la France actuelle en 1429 ?

Document 9

9-1 Quelle cérémonie est représentée ? Où se passe-t-elle ? Où se trouve Jeanne d'Arc ?

9-2 A ton avis, pourquoi le sacre de Charles VII est-il si important ?

9-3 Cherche des informations sur Jeanne d'Arc et sur Charles VII.

Document 10

10-1 Décris les personnages.

10-2 A ton avis, que va-t-il arriver à Jeanne d'Arc ?

10-3 Complète ta recherche sur Jeanne d'Arc et précise comment elle est morte.

Le temps des malheurs

Document 1

Deux hivers de famine

« Hiver 1420 : sur les tas de fumier, vous pouviez voir vingt ou trente enfants, mourant de faim et de froid.

Hiver 1437 : la verdure était si chère qu'on début mal, on vendait, finite de poireaux, des orties que les pauvres gens faisaient cuire sans graisse, rien qu'au sel et à l'eau, et qu'ils mangeaient sans pain. »

1-1 Qu'est-ce qu'une famine ? Pourquoi a-t-elle lieu souvent en hiver ?

1-2 Qu'est-ce qui montre qu'elle était terrible ?

Document 2



Une épidémie de peste

« Ils n'étaient malades que deux ou trois jours et mouraient rapidement. Ils avaient tout à coup des grosseurs sous les bras : c'était un signe infaillible de mort. Bientôt, en beaucoup d'endroits, sur vingt habitants, il n'en restait que deux en vie. On pensait que la mort provenait d'une infection de l'air ou des eaux. Le terrible fléau ne fit pas naître la paix entre les rois et les seigneurs. »

2-1 Qu'est-ce que la peste ?

2-2 Qu'est-ce qui montre qu'elle était terrible ?

2-3 Cherche plus d'informations sur la peste au Moyen-âge.

Document 3

3-1 Décris cette enluminure.

3-2 A ton avis, que représente le personnage avec la faux ?

3-3 En quoi cette œuvre nous montre comment était la vie à cette époque ?

Document 4

4-1 Décris chacune des deux armées.

4-2 Cette bataille oppose français et anglais, repère-les. A ton avis, qui remporte la victoire ?

4-3 Cherche des informations complémentaires sur la guerre de Cent Ans.

Document 5

5-1 Décris ce lieu.

5-2 Que font ces hommes ? A ton avis, pourquoi ?

5-3 A ton avis, comment était la vie des habitants des villes ?

Document 6

6-1 Repère les symboles de la royauté.

6-2 A ton avis, pourquoi les gens acclament-ils le roi ?

6-3 Cherche des informations sur Fouquet.

Document 7

7-1 Décris cette enluminure.

7-2 Que faisait cette armée avant la mort de son chef Du Guesclin ?

7-3 Cherche des informations sur Du Guesclin.

Document 8

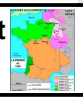

8-1 Quelle est la nature de ce document ?

8-2 Qui dirige le nord de la France actuelle en 1429 ?

Document 9

9-1 Quelle cérémonie est représentée ? Où se passe-t-elle ? Où se trouve Jeanne d'Arc ?

9-2 A ton avis, pourquoi le sacre de Charles VII est-il si important ?

9-3 Cherche des informations sur Jeanne d'Arc et sur Charles VII.

Document 10

10-1 Décris les personnages.

10-2 A ton avis, que va-t-il arriver à Jeanne d'Arc ?

10-3 Complète ta recherche sur Jeanne d'Arc et précise comment elle est morte.